UNIVERSIDADE FEDERAL DE CAMPINA GRANDE

CENTRO DE FORMAÇÃO DE PROFESSORES

ESCOLA TÉCNICA DE SAÚDE DE CAJAZEIRAS

CAJAZEIRAS – PARAÍBA

07 de maio de 2017

Técnico em Enfermagem e Saúde Bucal

UNIVERSIDADE FEDERAL DE CAMPINA GRANDE
CENTRO DE FORMAÇÃO DE PROFESSORES - CFP
ESCOLA TÉCNICA DE SAÚDE DE CAJAZEIRAS
PROCESSO SELETIVO - 2017

Técnico em Enfermagem e Saúde Bucal

GABARITO DO CANDIDATO

01 -	11 -	21 -	31 -
02 -	12 -	22 -	32 -
03 -	13 -	23 -	33 -
04 -	14 -	24 -	34 -
05 -	15 -	25 -	35 -
06 -	16 -	26 -	36 -
07 -	17 -	27 -	37 -
08 -	18 -	28 -	38 -
09 -	19 -	29 -	39 -
10 -	20 -	30 -	40 -

Português

Leia o texto “Namoro” de Luís Fernando Veríssimo e, em seguida, responda às questões 1, 2 e 3.

Namoro

O melhor do namoro, claro, é o ridículo. Vocês dois no telefone:

— Desliga você.

— Não, desliga você.

— Você.

— Você.

— Então vamos desligar juntos.

— Tá. Conta até três.

— Um... Dois... Dois e meio...

Ridículo agora, porque na hora não era não. Na hora nem os apelidos secretos que vocês tinham um para o outro, lembra? Eram ridículos. Ronron. Suzuca. Alcizanzão. Surususzuca. Gongonha (Gongonha!) Mamosa. Purupupuca...

Não havia coisa melhor do que passar tardes inteiras num sofá, olho no olho, dizendo:

— As dondozeira ama os dondozeiro?

— Ama.

— Mas os dondozeiro ama as dondozeira mais do que as dondozeira ama os dondozeiro.

Na-na-não. As dondozeira ama os dondozeiro mais do que, etc.

E, entremeando o diálogo, longos beijos, profundos beijos, beijos mais do que de línguas, beijos de amígdalas, beijos catetéricos. Tardes inteiras. Confesse: ridículo só porque nunca mais.

Depois de ridículo, o melhor do namoro são as brigas. Quem diz que nunca, como quem não quer nada, arquitetou um encontro casual com a ex ou o ex só para ver se ela ou ele está com alguém, ou para fingir que não vê, ou para ver e ignorar, ou para dar um abano amistoso querendo dizer que ela ou ele agora significa tão pouco que podem até ser amigos, está mentindo. Ah, está mentindo.

E melhor do que as brigas são as reconciliações. Beijos ainda mais profundos, apelidos ainda mais lamentáveis, vistos de longe. A gente brigava mesmo era para se reconciliar depois, lembra? Oito entre dez namorados transam pela primeira vez fazendo as pazes. Não estou inventando. O IBGE tem as estatísticas.

01 Na linha 6, no período “-Então, vamos desligar juntos”, podemos afirmar que o sujeito da oração é:

a) Indeterminado, visto que não sabemos quem seriam as pessoas a desligarem juntas.
b) Simples, tendo como núcleo “juntos”.
c) Oculto/Desinencial, uma vez que o sujeito é “nós” (os dois namorados ao telefone).
d) Composto, por se referir a duas pessoas do discurso.
e) Inexistente, em virtude do verbo impessoal desligar.

02 Assinale a alternativa que contenha a classificação dos vocábulos correta.

a) Secretos (linha 10) – adjetivo; nunca (linha 22) – advérbio; quer (linha 23) – verbo.
b) Lamentáveis (linha 28) – adjetivo; no telefone (linha 1) – locução adverbial; de amígdalas (linha 20) – locução prepositiva.
c) Não (linha 3) – advérbio; num sofá (linha 12) – locução adjetiva; profundos (linha 19) – adjetivo.
d) Encontro (linha 23) – substantivo; alguém (linha 24) – pronome; um (linha 8) – artigo.
e) Diálogo (linha 19) – substantivo; catetéricos (linha 20) – substantivo; brigas (linha 27) – substantivo.

03 Qual a classificação da oração destacada em "os dondozeiro ama as dondozeira mais do que as dondozeira ama os dondozeiro" (linhas 16 e 17)?

a) oração subordinada substantiva objetiva direta
b) oração subordinada substantiva apositiva
c) oração subordinada adjetiva restritiva
d) oração subordinada adverbial conformativa
e) oração subordianada adverbial comparativa

04 Assinale a alternativa que contém a sequência correta.

1. Eu preciso dos teus sorrisos nos dias ruins.
2. João estava morrendo de fome após a aula.
3. Eu quebre a asa da xícara da minha avó.
4. Os olhos de Capitu são ressaca.
5. As mãos que me tocam.
   As mãos que me acalentam.
   As mãos do meu amor.

( ) catacrese
( ) anáfora
( ) metáfora
( ) hipérbole
( ) metonímia

a)3, 4, 1, 2, 5
b)3, 5, 4, 2, 1
c)5, 4, 1, 2, 3
d)5, 3, 2, 4, 1
e)3, 5, 4, 1, 2

05 Qual a alternativa que apresenta a função incorreta do termo destacado?

a) A Irmã Neiva entrou na prefeitura armada. (Predicativo do Sujeito)
b) Policiais militares do BOPE fazem uma operação no Morro da Serrinha em Madureira. (Objeto Direto)
c) Imitação de Cristo foi publicada em português por Leonardo. (Agente da Passiva)
d) Dei-lhe uma lição de moral grande. (Objeto Direto)
e) David Beckham é a estrela de uma nova campanha da UNICEF. (Sujeito Simples)

06 Na notícia: "Luana Dom frequentava o presídio de Presidente Venceslau e era o pombo correio de facção criminosa", temos um período composto por:

a) subordinação com Oração Principal e Oração Subordinada Substantiva Apositiva.
b) subordinação com Oração Principal e Oração Subordinada Adjetiva Explicativa.
c) coordenação com Oração Assindética e Oração Sindética Aditiva.
d) coordenação com Oração Sindética Explicativa e Oração Sindética Aditiva.
e) coordenação com Oração Assindética e Oração Sindética Adversativa.

07 No período "Madonna assumiu romance com Michael Jackson nos anos 80", o trecho destacado corresponde à função sintática de:

a) adjunto adverbial
b) adjunto adnominal
c) aposto
d) agente de passiva
e) objeto indireto

08 A oração destacada foi classificada incorretamente em:

a) Embora não acredite nos homens, tenho fé na humanidade. (Oração Subordinada Adverbial Concessiva)
b) Todos querem que você tenha filhos depois do casamento. (Oração Subordinada Substantiva Objetiva Direta)
c) Os dias passam rapidamente, o tempo voa. (Oração Coordenada Assindética)
d) Muitos jovens não estudam nem trabalham. (Oração Coordenada Sindética Aditiva)
e) Os homens que têm boa vontade podem mudar o mundo. (Oração Subordinada Adjetiva Explicativa)

09 Em “À noite, sempre fico cansada. O dia é longo e o trabalho é intenso.”, os vocábulos destacados são classificados, respectivamente, em:

a) locução adverbial, advérbio, adjetivo, substantivo.
b) locução adjetiva, advérbio, adjetivo, substantivo.
c) substantivo, adjetivo, adjetivo, substantivo.
d) locução adverbial, advérbio, substantivo, substantivo.
e) locução adverbial, advérbio, adjetivo, verbo.

10 Qual a figura de linguagem presente em: “Brasil, mostra a tua cara” (Cazuza)?

a) metáfora
b) personificação
c) antítese
d) hipérbole
e) paradoxo

Matemática

11 A expressão $(x+y)^2 - (x-y)^2$ é equivalente a:

a) 4xy
b) 0
c) 2xy
d) $2x^2 + 4xy + 2y^2$
e) $2y^2$

12 Um motorista, após ter completado o tanque de combustível de seu veículo, gastou ⅓ da capacidade do tanque para chegar até à cidade A; gastou mais 25 litros para ir da cidade A até a cidade B; o motorista observou que sobrou, no tanque, uma quantidade de combustível correspondente a ¼ de sua capacidade. Quando o motorista chegou à cidade B, observou que havia, no tanque menos de:

a) 8 litros.
b) 10 litros
c) 11 litros
d) 12 litros
e) 16 litros

13 Considerando que as raízes da equação do segundo grau $x^2 - 8x + 12 = 0$, são x' a maior raiz e x" a menor, então 3.x' + 5.x" é igual a:

a) 28
b) 32
c) 34
d) 36
e) 38

14 Sabendo que A = { 2, 3, 4, 6, 8}, B = { 5, 7, 8, 10} e C = {1, 3, 5, ..., 11} , o conjunto $(A \cap B) \cup (B - C)$ é:

a) {3, 4, 10, 11}
b) {8}
c) { }
d) {8, 10}
e) {2, 3, 5, 7}

15 Qual o milésimo termo da sequência (– 3, 1, 5, ...)?

a) 3993
b) 3241
c) 3323
d) 4001
e) 3593

16 Uma pessoa corre sempre 600 metros a mais do que no dia anterior. Sabendo-se que no final de 20 dias ele correu um total de 134000 metros, o número de metros percorridos no 4º dia foi:

a) 1200 m
b) 1800 m
c) 2200 m
d) 2300 m
e) 2800 m

17 Um frasco de xarope tem 270 ml. O José deve tomar uma colher de sopa a cada 8 horas. Sendo assim, um frasco de xarope durará quantos dias? Dado: 1 colher de sopa = 15ml.

a) 6 dias
b) 5 dias
c) 7 dias
d) 8 dias
e) 9 dias

18 Seja a função exponencial $f(x) = 2^{x-1}$, os valores de f(4) , f(1) e f(-1), são respectivamente:

a) 8 , 1 e 4
b) 15, 2 e – 4
c) 8, 1 e ¼
d) 8, 0 e ¼
e) 6, 1 e – 4

19 O zero da função afim f(x) = 3x - 360, é:

a) 12
b) 10,2
c) 102
d) 0
e) 100

20 Considere as seguintes afirmações:

I) O conjunto solução da equação x + 5 + x = 3x + 16 é S = {11}.
II) A fração 14/99 representa uma dízima periódica composta.
III) A inequação 8x-30 ≤ 5x-20 possui no seu conjunto solução apenas três números naturais.
IV) O número 180 possui 17 divisores naturais.
V) O número 3333 dividido por 33 é igual a 11.

Então, podemos afirmar que:

a) As afirmações I, II e V são verdadeiras;
b) Todas as afirmações são verdadeiras;
c) Somente as afirmações II e III são verdadeiras;
d) Somente a afirmações II, III e IV são verdadeiras;
e) Todas as afirmações são falsas.

Ciências da Natureza

21 Sobre os **vírus** é correto afirmar:

a) Os vírus podem passar um longo tempo latente fazendo parte do material genético da célula hospedeira, sem causar doenças no organismo, parasitado. Tal período corresponde à parte de seu ciclo de vida conhecido como ciclo lisogênico.
b) O ciclo lítico de ação dos vírus não é patogênico ao organismo parasitado.
c) Tanto o DNA como o RNA, podem estar presentes, ao mesmo tempo, nos vírus, sendo replicados durante o ciclo replicativo, o qual começa com a invasão da célula hospedeira pelo material genético do vírus.
d) A virulência dos vírus deve ser mantida para o bom funcionamento de uma vacina.
e) As viroses são curradas com antibióticos e vacinas.

22 Uma pessoa infectada pelo vírus da **AIDS(HIV)** fica mais vulnerável a outras infecções, em função:

a) Do aumento do número de fibroblastos.
b) Da destruição dos linfócitos.
c) Do aumento do número de eosinófilos.
d) Da inativação das plaquetas.
e) Da redução do número de hemácias.

23 As vacinas **Tríplice Viral e Tríplice Bacteriana** são administradas para evitar, respectivamente, as seguintes doenças:

a) Sarampo, Difteria e Cólera / Tétano, Rubéola e Coqueluche.
b) Gripe, Herpes e Coqueluche / Cólera, Botulismo e Sífilis.
c) Sarampo, Caxumba e Rubéola / Difteria, Coqueluche e Tétano.
d) Rubéola, Leptorpirose e Sífilis / Gonorréia, Sarampo e Tétano.
e) Gripe, Sarampo e Coqueluche / Botulismo, Sífilis e Rubéola.

24 Os antibióticos atuam contra os agentes causadores das seguintes doenças:

a) Tuberculose ,Coqueluche e hepatite.
b) Tuberculose, Sífilis e Gripe.
c) Tétano, Sífilis e Gripe.
d) Tuberculose, Coqueluche e Sífilis.
e) Coqueluche, Sífilis e Sarampo.

25 "Uma das consequências imprevistas do contato intercontinental e da comunicação marítima iniciada por Colombo em 1942 foi a chegada de doenças do Velho Mundo que atacaram os habitantes nativos do Novo Mundo, que não tinham imunidade (…). Doenças até então desconhecidas como **Malária e Febre Amarela,** dizimaram a população nativa em menos de um século, exigindo ajustes econômicos e sociais que levaram à criação de uma sociedade multiétnica no continente". A respeito dessas doenças, ainda hoje presentes no nosso país, mesmo passados mais de cinco séculos, podemos afirmar, sob o enfoque biológico que são:

a) causadas por insetos. b) causadas por bactérias. c) causadas por protistas
d) transmitidas por insetos. e) transmitidas por bactérias.

26 Segundo a OMS - Organização Mundial de Saúde, dentre as principais doenças parasitárias da atualidade, podem ser citadas **malária, esquistossomose, filariose, giardíase, ascaridíase e ancilostomíase**. Considerando essas parasitoses pode-se dizer que:

a) os protozoários são responsáveis por pelo menos três dessas doenças.
b) pelo menos quatro dessas doenças são transmitidas por picada de insetos.
c) pelo menos uma dessas doenças é causada por vírus.
d) pelo menos uma dessas doenças é causada por bactérias.
e) pelo menos quatro dessas doenças são causadas por helmintos.

27 O esquema abaixo representa cinco órgãos envolvidos na digestão nos seres humanos.

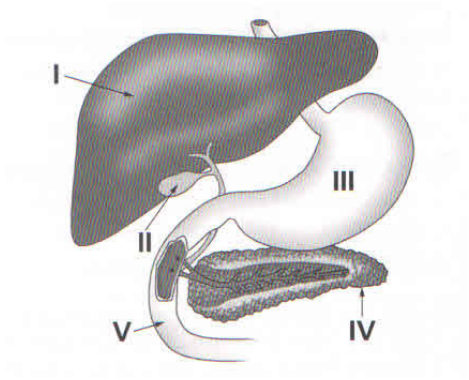

Quanto ao processo de digestão associado a estes órgãos, indique a alternativa correta:

a) O suco pancreático é produzido pelo órgão IV, sendo constituído pelas enzimas ptialina, pepsina e tripsina.
b) O suco pancreático produzido pelo órgão I e lançado no órgão V é constituído por várias enzimas digestivas.
c) A pepsina produzida pelo órgão III, é uma enzima que atua em meio ácido digerindo carboidratos.
d) O órgão I produz a bile, que é armazenada no órgão II e que após lançamento no órgão V, facilita a digestão de gorduras.
e) Os produtos da digestão, ocorrida no órgão V, são transportados para o órgão III, onde são absorvidos.

28 O gráfico abaixo mostra as curvas de saturação de dois tipos de hemoglobina (Hb) que se ligam ao oxigênio (O_2).

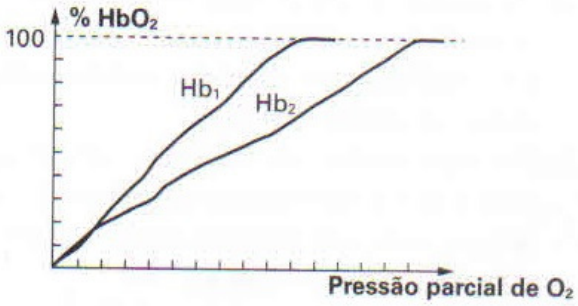

Essas curvas nos permitem concluir quer:

a) a hemoglobina 1 possui menor afinidade pelo O_2 que a hemoglobina 2.
b) a hemoglobina 1 possui maior afinidade pelo O_2 que a hemoglobina 2.
c) as hemoglobinas 1 e 2 possuem a mesma afinidade pelo O_2.
d) a hemoglobina 1 fica saturada somente nas maiores pressões parciais de O_2.
e) a hemoglobina 1 nunca fica saturada uma vez que a hemoglobina 2 impede tal evento.

29 A figura abaixo esquematiza o coração de um humano, com suas câmaras (representadas por letras), veias e artérias (representadas por números romanos).

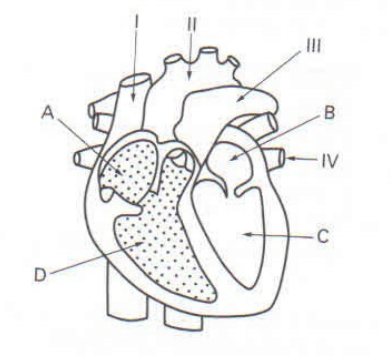

Identifique cada parte do coração e indique a alternativa que apresenta a correspondência correta.

a) o sangue rico em O_2 chega nas câmaras A e B.
b) o sangue rico em CO_2 chega na câmara B.
c) os vasos identificados por I , II e III são respectivamente, veia cava superior, artéria pulmonar e artéria aorta.
d) o vaso IV traz sangue arterial dos pulmões ao coração
e) O vaso indicado por III leva sangue arterial do coração para o corpo.

30 Com base na figura abaixo que corresponde a um corpúsculo renal, indique a afirmativa correta:

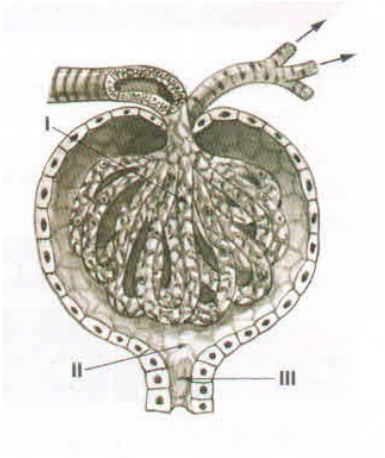

a) esta estrutura está presente em todos os cordados.
b) o líquido que passa pela região III é reabsorvido na bexiga.
c) o líquido presente na região II é rico em sais e proteínas.
d) a região I corresponde ao glomérulo renal.
e) denomina-se urina o líquido encontrado na região II.

Ciências Humanas

31 Durante a Idade Média, para libertar a Terra Santa, o papa Urbano II declarou guerra ao Império Islâmico enviando uma campanha cruzadista de cavaleiros cristãos à Palestina. Até o séc. XIII foram organizadas várias expedições compostas desde pessoas simples à clérigos e reis. Entretanto, além do intuito de retomar Jerusalém das mãos dos muçulmanos, as cruzadas tiveram propósitos diversos que foram além de questões religiosas e acarretaram importantes transformações no cenário europeu. Sobre as consequências do movimento cruzadista não podemos afirmar:

a) As expedições fizeram com que os muçulmanos abandonassem o território próximo ao Mediterrâneo, beneficiando os burgueses italianos;
b) Contribuíram com o desenvolvimento comercial fazendo com que os moradores do campo migrassem para as cidades;
c) Nas cidades, a ascensão da atividade comercial aquecida pelos fluxos migratórios formou uma nova engrenagem social, o chamado feudalismo;
d) O contato com outros povos introduziu no continente europeu novas técnicas de navegação;
e) Impulsionaram indiretamente o desenvolvimento de uma nova classe social: a burguesia (os habitantes dos burgos).

32 A cultura Renascentista tinha como principal característica a crítica aos valores medievais como o misticismo e a extrema religiosidade. Os pensadores do Renascimento trabalharam em explicações baseadas em observações e experimentos que fomentaram o desenvolvimento científico motivando importantes realizações. Dentre as fatos decorridos nesse período é INCORRETO afirmar que:

a) Predominou o pensamento teocêntrico em detrimento do antropocêntrico;
b) Houve uma crescente influência das concepções gregas de humanismo e naturalismo;
c) Marcou o início da Idade Moderna;
d) A pintura desse período se encontra imbuída do espírito universalista e individualista;
e) Com a consolidação da burguesia, surgem os mecenas, que financiavam obras artísticas e experimentos científicos.

33 No início do século XVIII, Portugal assinou com a Inglaterra o Tratado de Methuen. Esse acordo prejudicou ainda mais a situação da balança comercial portuguesa, já fragilizada pelo declínio do açúcar. A Coroa viu então, nas jazidas de ouro descobertas no Brasil, a possibilidade de sanar todos os problemas que assolavam a sua economia. A respeito do ciclo econômico da mineração na América portuguesa assinale a alternativa INCORRETA:

a) A notícia das existência de jazidas de ouro desencadeou um enorme deslocamento populacional provocando profunda carestia na região das minas.
b) Para aumentar o rigor da fiscalização sobre o ouro extraído, foram criadas as Casas de Fundição que transformavam -no em barras timbradas.
c) O ouro explorado ficou conhecido como ouro de aluvião, havendo basicamente duas formas de explorá-lo: a Lavra e a Faiscação.
d) O imposto cobrado pela Coroa sobre o ouro garimpado era o chamado “quinto”.
e) Os paulistas se julgavam donos das minas por direito de descoberta e não queriam dividir os lucros com os emboabas, isso acabou desencadeando a Revolta de Vila Rica.

34 Com base nos seus conhecimentos a respeito da II Guerra Mundial, analise as seguintes proposições:

I. Apesar das proporções que a guerra alcançou, alguns países europeus permaneceram neutros ao longo de todo o conflito.
II. A Liga das Nações, órgão instituído para manter a paz entre as nações, não conseguiu cumprir o seu papel, e esfacelou mediante a corrida militarista preparada pelas nações do Eixo.
III. A postura brasileira durante o conflito foi de neutralidade durante todo o tempo, em virtude da posição pró-Eixo do governo brasileiro.
IV. Após a Revolução Bolchevique, a Rússia fortaleceu o apoio aos seus aliados enviando cada vez mais reforços para a guerra.
V. A Rússia comunista e a Alemanha nazista assinaram um pacto de não agressão, que previa, em segredo, a divisão da Polônia entre as duas partes.

Estão CORRETAS

a) I, III e V. b) II, III e IV. c) I, II e IV. d) I, II e V. e) III, IV e V.

35 Sobre a Segunda Guerra Mundial e seus efeitos imediatos não é correto afirmar:

a) O mundo passou a lidar com a ameaça real da utilização de armas atômicas após os ataques no Japão.
b) A União Soviética, maior potência comunista do planeta, saiu do conflito bastante fortalecida, passando a disputar com os Estados Unidos a liderança mundial.
c) A Alemanha foi dividida em zonas de influência ocidental (capitalista), e oriental (socialista).
d) Inglaterra e França saíram da guerra em grave crise social, política e econômica e, nesse contexto, várias colônias africanas iniciaram seu processo de emancipação.
e) Os regimes nazifascistas saíram da guerra em processo de ascensão, fato que impulsionou o avanço do totalitarismo.

36 "A dependência econômica dos fluxos informacionais garante poder a quem domina e controla suas tecnologias, tornando as regiões excluídas cada vez menos importantes no cenário da economia global e consolidando mais uma vez uma nova Divisão Internacional do Trabalho, na qual se podem distinguir" *(Adaptado de: Almeida e Rigolim, 2013),* EXCETO:

a) Produtores de alto valor, que mantêm seus negócios com base no trabalho informacional: centros industriais de alta tecnologia (informática, biotecnologia, robótica, telecomunicações, aeroespaciais, etc.), como Bangalore (Índia), Campinas e São José dos Campos (Brasil), Vale do Silício (Califórnia, Estados Unidos).
b) Produtores de grandes volumes, com trabalho de menor custo: países e regiões que obtém grande produção com mão de obra não qualificada não qualificada (baixo custo), como México, Argentina, Brasil e China.
c) Produtores de matérias-primas que são recursos naturais: a maioria dos países da África, da América Latina e da Ásia. Além de Japão, União Europeia e Estados Unidos da América que são produtores e exportadores de minérios e de produtos agrícolas.
d) Produtores cujo trabalho perde valor nesse sistema: regiões nas quais o desemprego é expressivo e crescem o trabalho informal e o subemprego.
e) O trabalho informal e o subemprego são os únicos fatores que contribuem para o crescimento dessas regiões.

37 "Na Conferência de Potsdam, realizada em 1945, foi decidido o futuro da Alemanha, que passou a ser dividida em quatro setores controlados pelos países vencedores: Inglaterra, França, Estados Unidos e União Soviética. Em 1949, após divergências entre norte-americanos e soviéticos, a Alemanha foi transformada em dois países – um único povo, mas com sistemas econômicos completamente diferentes" *(Adaptado de: Almeida e Rigolim, 2013)*. Acerca do mundo socialista e os conflitos da guerra fria, julgue as proposições que se segue.

I- Alemanha Ocidental, oficialmente República Federal da Alemanha, capital Bonn. Capitalista, compreendia os setores de domínios inglês, francês e norte-americano.
II- Alemanha Setentrional, oficialmente República Federal da Alemanha, capital Potsdam. Capitalista, compreendia os setores de domínios inglês, francês e norte-americano.
III- Alemanha Oriental, oficialmente República Democrática Alemã, capital Berlin – também dividida, embora tivesse localizada no setor soviético.

Estão corretas as proposições:

a) I e II.
b) II e III.
c) I e III.
d) I, II e III.
e) Apenas a III.

38 Os eleitores do Reino Unido decidiram em 2016 em referendo popular pelo **Brexit**, palavra originada na língua inglesa resultante da junção das palavras Britain/Grã-Bretanha e exit/saída. Assim como ficou conhecido a saída do Reino Unido da União Europeia. Sobre os motivos que fundamenta essa saída pode se inferir, EXCETO,

a) o estabelecimento de uma relação "injusta", onde o Reino Unido envia mais capital para bloco da União Europeia do que recebe de volta.
b) muita burocracia e imposição de normas impostas pela União Europeia aos países membro.
c) a crise dos refugiados e do terrorismo que tomou conta da União Europeia.
d) o livre transito de capital, produtos, serviços e pessoas em todo o bloco da União Europeia.
e) Que a União Europeia está se institucionalizando demais, buscando se tornar um "Estados Unidos da América".

39 No mundo pós-guerra fria, o *conflito Leste-Oeste* foi substituído pelo *conflito Norte-Sul,* marcado por grandes desigualdades: de um lado, a riqueza, a tecnologia e o alto nível de vida e, de outro, a pobreza, a exclusão das inovações tecnológicas e científicas e os baixos níveis de vida. A figura abaixo apresenta uma regionalização do globo, conhecida como:

a) Apenas Mundo Multipolar.
b) Divisão ou conflito Leste-Oeste.
c) Apenas Divisão Norte-sul.
d) Divisão Norte-sul e Mundo Bipolar.
e) Divisão Norte-sul e Mundo Multipolar

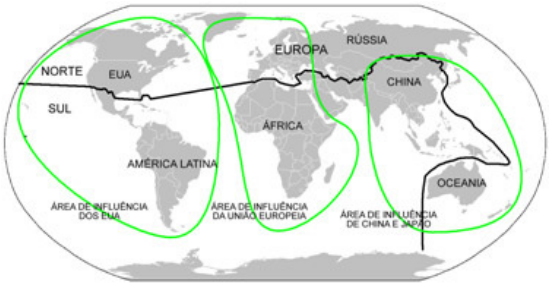

40 O deslocamento populacional ocorre geralmente por causa de conflitos étnicos, perseguições, crises econômicas e problemas ambientais e transforma milhões de pessoas em estrangeiros. No dia 13 de setembro de 2015, o programa "Fantástico", da rede Globo de Televisão, exibiu uma matéria sobre a questão da imigração europeia. Durante a exibição do programa tivemos o seguinte depoimento:

"*Nós somos trabalhadores! Somos educados! Não oferecemos perigo para ninguém, portanto, não tenham medo*." Disse um refugiado húngaro!

O depoimento revela

a) A preocupação das autoridades da União Europeia diante da impossibilidade de conter o imigrante.
b) A angústia do imigrante frente à dificuldade de trabalho em países pobres.
c) A expectativa de melhores condições de vida por parte dos imigrantes.
d) A preocupação do imigrante, frente à xenofobia presente em países ricos, tendo em vista, inclusive, o preconceito étnico.
e) O grau de esclarecimento do imigrante, diante da política de controle da imigração europeia.

RASCUNHO

IDENTIFICAÇÃO DO CANDIDATO

Nome: _____ **Carteira nº** _____